سلم تصحيح مقرر مقاومة المواد لطلبة السنة الثانية ليسانس
دفعة أساسية والطلبة السنة الثانية (ق.ت.ع. - ق.ك - ق.ل) للسداسي
الفصل الدراسي الثاني للعام 2024 / 2025
في 2024/7/27

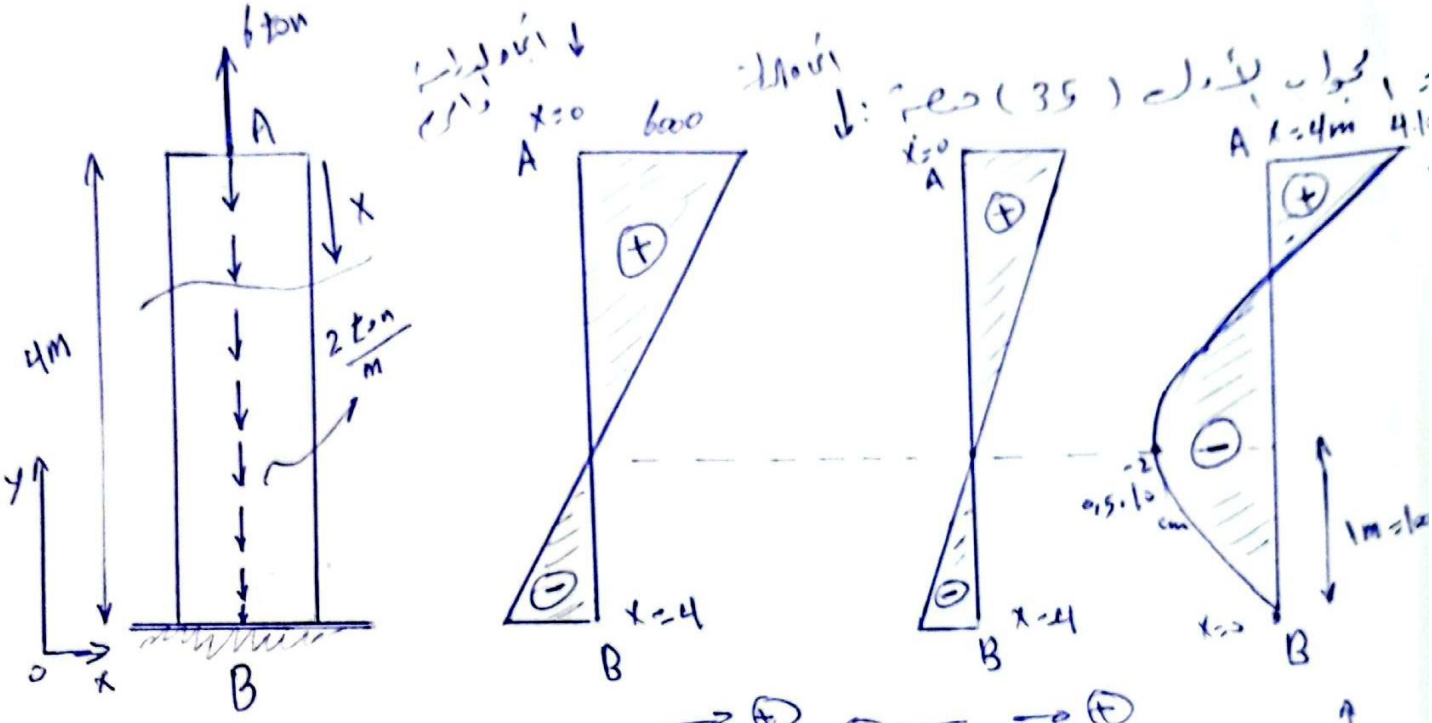

(5) نحسب قيمة رد الفعل

$$\Sigma F_y = 0 \Rightarrow -2.4 + 6 + R_B = 0 \Rightarrow R_B = 2\,ton = 2000\,kg$$

ندرس القوى الجدية والإجهادات الناظمة بدءاً من الطرف الحر حيث لدينا قطع وحيد

(10) عدد قيم نحسبها

$0 \leq X \leq 4$ نحدد مجال القطع

$$N_I = 6 - 2X$$

$X = 0 \Rightarrow N_{A_I} = 6\,ton = 6000\,kg$

$X = 4 \Rightarrow N_{B_I} = -2\,ton = -2000\,kg$

نلاحظ أن القوة الجدية انتقلت من قيمة موجبة نحو السالب وبالتالي مرّت عبر العدم $N=0$ والذي يكون عندها الإجهاد الناظمي معدوم ولمعرفة موضع العدم

$N_I = 0 \Rightarrow 6 - 2X = 0 \Rightarrow \boxed{X = 3m}$ القوة عبارة عن تحمل $N_I = 0$

أي عالبعد 3m من الطرف الحر (جهة الداخل) تكون $N_I = 0$ ، $\sigma_I = 0$

لاحظ أن معادلة القوى المحورية أي معادلة من الدرجة الأولى وهي مستقيم مائل

* حساب الإحداثيات: (10) عدد نقاط كافي

$0 \le X \le 4$ m

أو $0 \le X \le 400$ cm

$\frac{2\,ton}{m} = \frac{20\,Kg}{cm}$

$$\sigma_I = \frac{N_I}{A} = \frac{6 - 2X}{100} = \frac{6000 - 20X}{100}$$

At A: $X = 0$ cm $\Rightarrow \sigma_I = 60 \frac{kg}{cm^2} = \sigma_A$

B at $X = 400$ cm $\Rightarrow \sigma_I = -20 \frac{kg}{cm^2}$ الإشارة السالبة الطلوبة تلاحظ على محفظ الإجهاد

عند النقطة الاعتبارية $X = 300$ cm $\Rightarrow \sigma_I = 0$

ملاحظة: عند الاعتبار القوة المحورية $N_I = 0$ يكون الإجهاد المحوري معدوم أيضاً $\sigma_I = 0$ بينما يكون هناك قيمة في منحني الشوه وذلك عالبعد 300 cm من الطرف الحر.

* دراسة الشوهات (الاستطالات) (10) عدد نقاط كافي

ندرس الشوهات من اليمين باتجاه الطرف الحر حيث: $0 \le X \le 400$

لذلك يمر في مقطع وهي واقعي جهة الداخل

$\Delta L_B = 0$ (واقعية)

$$\Delta L_A = \Delta L_B + \Delta L_{B/A} = 0 + \int_0^{400} \frac{N_x \cdot dx}{E \cdot A}$$

$$= 0 + \int_0^{400} \frac{(-R_B + q \cdot x)\,dx}{E \cdot A} = 0 + \left[\frac{-R_B \cdot X}{E \cdot A} + \frac{q \cdot}{2 \cdot E} \right.$$

*

$X=0 \Rightarrow \Delta L_B = 0$

$$X = 400 \Rightarrow \Delta L_A = \left[\frac{-2000 \cdot 400}{2 \cdot 10^5 \cdot 100} + \frac{20 \cdot (400)^2}{2 \cdot 2 \cdot 10^5 \cdot 100} \right]$$

$$\Delta L A = 0,04 \text{ cm} = \boxed{4 \cdot 10^{-2} \text{ cm}}$$

كتعليق: $X = 100$ cm (بعد البرغي عن الثابت B)

$X = 300$ cm (بعد البرغي عن الطرف A)

بما أن طبيعة المسألة عن الثابت هنا $X=100$ cm لذلك قمت بالحل (*)

$$\Delta L_{x=100} = 0 + \left[\frac{-2000 \cdot 100}{2 \cdot 10^5 \cdot 100} + \frac{20 \cdot (100)^2}{2 \cdot 2 \cdot 10^5 \cdot 100} \right] = -0,005 \text{ cm}$$

$$= \boxed{-0,5 \cdot 10^{-2}}$$

وهي نفس الطريقة عند أخذ البعد الذي تركت معادلة الطريقة الثانية، لكونها معادلة عن البعد الثاني.

تم توزيع درجات السؤال الأول كالآتي: (35) درجة

1- حساب رد الفعل (5) درجات.

2- حساب القوى الداخلية مع رسم مخطط (10) درجات.

3- حساب الإجهادات الحدية مع رسم مخطط (10) درجات.

4- حساب أعظم انزياح (تشوه) مع رسم مخطط (10) درجات.

وكتبه الفقير عبد العزيز غالم

كتابة الأستاذ

السؤال الثالث: الرابحي

جائز بسيط متعرض للحمولات المبينة بالشكل والمطلوب:

1- حساب ردود الأفعال عند الساند. (5)

2- إيجاد معادلات رسم مخططات الجهد (القوى القاطعة) وعزوم الانعطاف. (20)

3- حساب قيمة عزم الانعطاف الأعظمي في المقطع الذي يحوي أكبر عزم انعطاف وذلك بأخذ المقطع المار بالمركز الثقل لأحد المقاطع الجائز مستطيل عرضه 10cm وارتفاعه 40cm. (10)

ملاحظة: يجب أخذ قياس كل 1m و 2cm

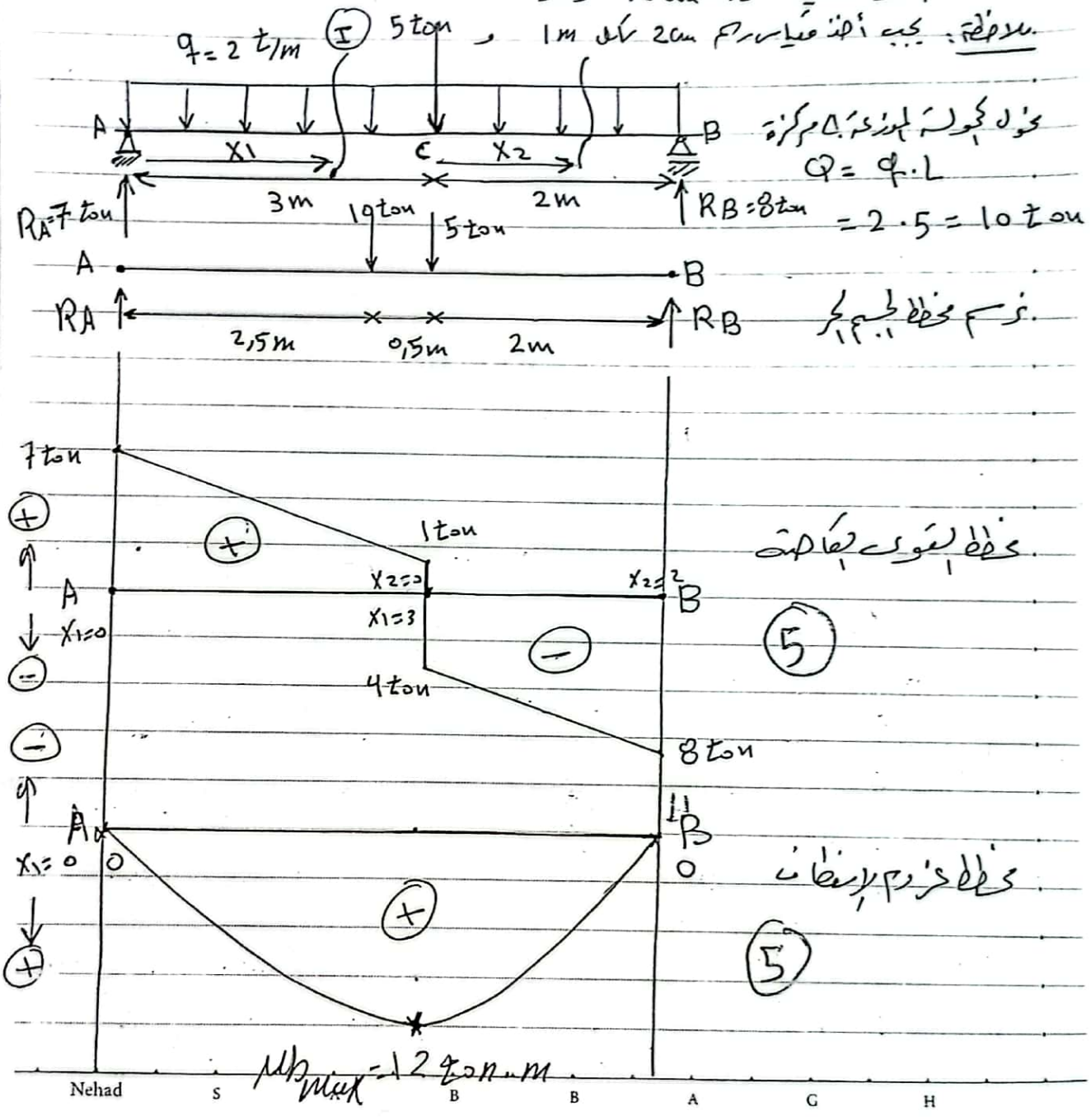

تحول الحمولة الموزعة q إلى مركزة Q = q.L = 2.5 = 10 ton

رسم مخطط الجسم الحر

مخطط القوى القاطعة (5)

مخطط عزوم الانعطاف (5)

5

1- حساب ردود الأفعال

$\sum MA=0 \Rightarrow R_B \cdot 5 - 5\cdot 3 - 10\cdot 2{,}5 = 0 \Rightarrow \boxed{R_B = 8\ ton}$

$\sum MB=0 \Rightarrow -R_A \cdot 5 + 10\cdot 2{,}5 + 5\cdot 2 = 0 \Rightarrow \boxed{R_A = 7\ ton}$

2- دراسة معادلات القوى القاطعة وعزوم الانطفاء ورسم مخططاتها.

* دراسة القوى القاطعة: Q_T

* المقطع الأول: نقيم مقطعا ما بحيث نحصل على المجال الأول

$0 \le X_1 \le 3$

$Q_I = +R_A - q_x \cdot X_1 \qquad \because q_x = q = 2\ t/m$

$= 7 - 2\cdot X_1$ معادلة مستقيم مائل

$X_1 = 0 \Rightarrow Q_I = \boxed{7\ ton} = R_A$

$X_1 = 3 \Rightarrow Q_I = \boxed{1\ ton}$

* المقطع الثاني Q_{II}

$0 \le X_2 \le 2$

$Q_{II} = +R_A - q_x(3+X_2) - 5$ معادلة مستقيم مائل

$Q_{II} = 7 - 2(3+X_2)$

$X_2 = 0 \Rightarrow Q_{II} = \boxed{-4\ ton}$

$X_2 = 2 \Rightarrow Q_{II} = \boxed{-8\ ton}$

* دراسة عزوم الانطفاء: M_b

المقطع الأول I

$0 \le X_1 \le 3$

$M_{bI} = +R_A \cdot X_1 - q \cdot X_1 \cdot \frac{X_1}{2}$

$= 7X_1 - X_1^2$ معادلة قطع مكافئ محدب

6

$$Mb_I = 7X_1 - X_1^2$$

$X_1 = 0 \Rightarrow Mb_I = \boxed{0}$ عند المسند

$X_1 = 3 \Rightarrow Mb_I = \boxed{12\ ton.m}$ (5)

* مجال المقطع الثاني:

$$0 \leq X_2 \leq 2$$

$$Mb_{II} = +RA(3+X_2) - q.(3+X_2)\left(\frac{3+X_2}{2}\right) - 5.X_2$$

$$= 7(3+X_2) - (3+X_2)^2 - 5X_2$$ معادلة من الدرجة الثانية تركنا معنى

$X_2 = 0 \Rightarrow Mb_{II} = \boxed{12\ ton.m}$

$X_2 = 2 \Rightarrow Mb_{II} = \boxed{0}$ عند المفصلة

(3) من الخط المغلق نجد قيمة عزم الانعطاف العظمى

(10)

$$\mu bmax = \boxed{12\ ton.m}$$

لحساب قيمة الاجهاد العظمى الناظمي الناتج عن الانعطاف

$$\sigma max = \frac{\mu bmax.\ y}{I_{xx}}$$

$\mu bmax = 12.10^5\ kg.cm$

$y max = \frac{40}{2} = \boxed{20\ cm}$

$$I_{xx} = \frac{b.h^3}{12} = \frac{10.(40)^3}{12} = \boxed{53333,33 cm}$$

الممسوحة ضوئيا بـ CamScanner

$$\sigma_{max} = \frac{12.10^5.20}{533333} = \boxed{450 \ kg.cm}$$

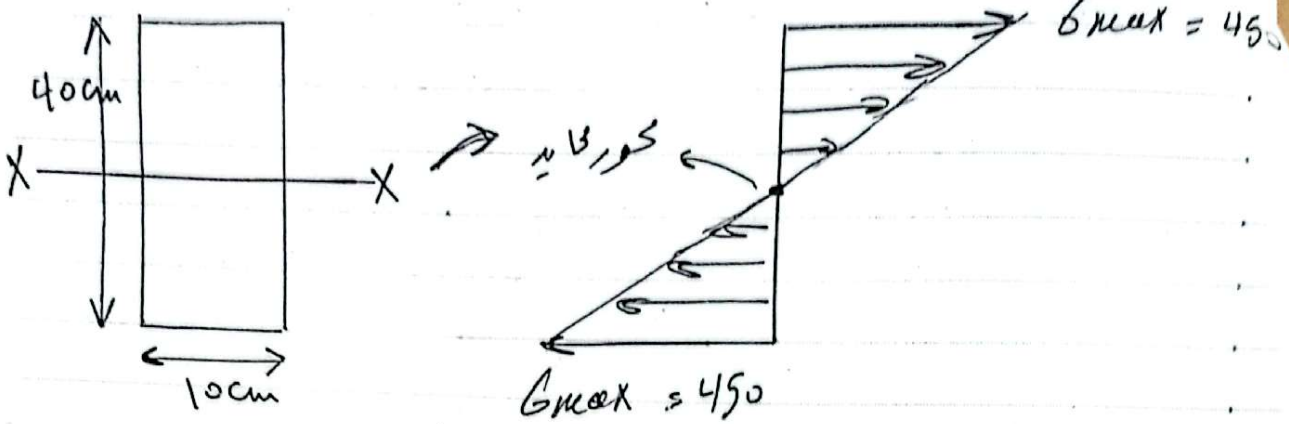

* حساب إجهاد القص الأعظمي عند النقطة A

$$\frac{T_{max}}{A} = \frac{3.Q_A}{2.b.h} = \frac{3.7000}{2.10.40} = \boxed{26,25 \ \frac{kg}{cm^2}}$$

$$\tau_B = \frac{3.Q_B}{2b.h} = \frac{3.8000}{2.10.40} = 30 \ \frac{kg}{cm^2}$$

$$\tau_B > \tau_A$$

27/7/2025

وزعت درجات السؤال الثاني على 35 درجة كالآتي:

1- 5 درجات لحساب ردود الأفعال

2- 20 درجة لحساب المعادلات ورسم مخططات القوى بطريقة والعزوم

3- 10 علامات لحساب إجهاد القص عند النقطة A و B

Nehad S A B B A G H